第4回　国のおこりと貴族の世の中

1　国のおこり～平安時代の歴史の流れ

次の年表の［　　］にあてはまることばを書き入れなさい。

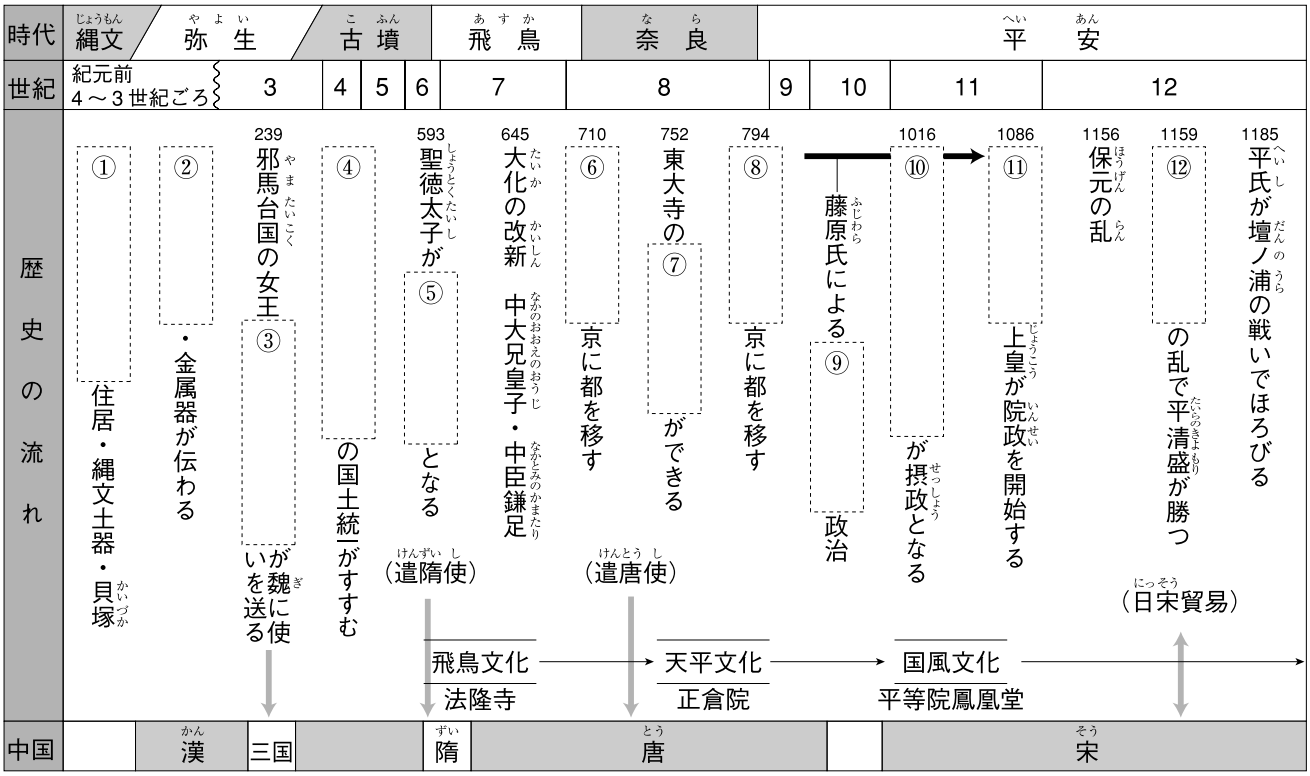

2　日本の国のおこり

左の資料を見て，次の文中の［　　］にあてはまることばを書きなさい。

Ⅰ

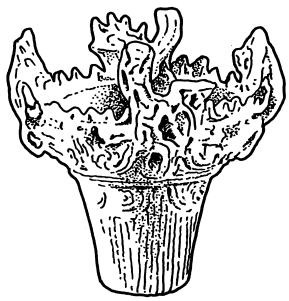

Ⅱ

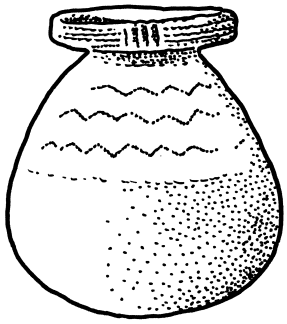

(1)　数十万年前～約1万年前の時代，人々は土器をつくることを知らず，打製石器や，骨でつくった道具を使っていました。この時代を［　　］時代といいます。　〔　　〕

(2)　資料Ⅰは，縄目のもようがあり，黒ずんでいて厚くてもろい［　　］土器です。　〔　　〕

(3)　資料Ⅱは強い火で焼いた，うすくて固い［　　］土器です。　〔　　〕

(4)　佐賀県の［　　］遺跡は，弥生時代半ばの大規模な集落あとで，ほりや物見やぐらのあとなどが発掘されました。　〔　　〕

(5)　3世紀ごろ，［　　］の女王卑弥呼が中国に使いを送り，皇帝から王の称号と銅鏡などをさずけられました。　〔　　〕

(6)　3世紀後半ごろからつくられるようになった，豪族の墓を［　　］といいます。　〔　　〕

(7)　大和朝廷は，大和（奈良県）や河内（大阪府）の豪族たちが連合してつくった国の政府です。その中心になった王を［　　］といいます。　〔　　〕

(8)　6世紀に，百済から正式に伝えられた宗教は［　　］です。　〔　　〕

3 飛鳥時代　左の資料を見て，次の問いに答えなさい。

Ⅰ

Ⅱ

一，これまで天皇や豪族がもっていた土地や人民は，すべて国家のものとする。
三，戸籍をつくり，人民に土地をあたえて耕作させる。

(1)　資料Ⅰの写真は，世界文化遺産に登録されている建物です。この建物を建てた人物はだれですか。〔　　〕

(2)　(1)の人物は，中国の文化・政治の制度を取り入れようと，小野妹子らを使節として中国に派遣しました。この使節を何といいますか。〔　　〕

(3)　(1)の人物の死後，政治の実権をにぎった豪族は何氏ですか。〔　　〕

(4)　645年，中臣鎌足らとともに，(3)の豪族をほろぼし，天皇中心の国家をつくろうとした中心人物はだれですか。〔　　〕

(5)　資料Ⅱは，(4)の大化の改新のときの天皇の命令ですが，このうち，一に関することがらは，ふつう何とよばれていますか。〔　　〕

(6)　資料Ⅱの三に関して，戸籍を定め，それをもとに6才以上の人々に土地(口分田)をあたえて税をおさめさせ，死ねば土地を朝廷に返させたしくみを何といいますか。〔　　〕

4 奈良時代　左の資料を見て，次の問いに答えなさい。

(1)　資料の建物は，東大寺にある宝庫です。この建物は何とよばれていますか。〔　　〕

(2)　(1)の建物には，国分寺や東大寺の建立を命じた聖武天皇の遺品もおさめられました。この天皇の時代を中心に栄えた文化を何文化といいますか。〔　　〕

(3)　この時代に，天皇や農民・防人らの歌約4500首を集めてつくられた和歌集を何といいますか。〔　　〕

5 平安時代　左の資料を見て，次の問いに答えなさい。

Ⅰ

この世をば　わが世とぞ思う
もち月の
かけたることも　なしと思えば

Ⅱ



(1)　8世紀末に即位し，律令政治を立て直そうとして，794年に都を京都に移した天皇はだれですか。〔　　〕

(2)　平安時代初期に唐から帰国し，現在の和歌山県に金剛峰(峯)寺を建て，真言宗を広めた僧はだれですか。〔　　〕

(3)　資料Ⅰは，ある人物が娘を天皇のきさきにしたとき，その得意な気持ちをうたったものです。この人物はだれですか。〔　　〕

(4)　894年，菅原道真の進言により遣唐使が停止されたころから，中国風の文化が消化され，日本風の文化が発達しました。この日本風の文化を何といいますか。〔　　〕

(5)　(4)の文化を代表する資料Ⅱの建物のつくりを何といいますか。〔　　〕

(6)　白河天皇が上皇となってから，自分のすまいで行った政治を何といいますか。〔　　〕

練習問題

1 次のA～Dの時代について，それぞれの問いに答えなさい。

A　旧石器時代	→	B　縄文時代	→	C　弥生時代	→	D　古墳時代

(1)　A時代について，次の問いに答えなさい。

①　次の文中の［　　］にあてはまる県名を答えなさい。

「ついに見つけた！　この赤土の中に……。」1949年，［　　］県・岩宿の関東ローム層の中で，相沢忠洋が黒曜石を打ちかいてつくった石器を発見した。こうして，縄文時代よりも古い旧石器時代に人々が生活していたことが明らかになった。

②　A時代に関係の深い文を次の**ア**～**エ**から選び，記号で答えなさい。

ア　人々のあいだに貧富の差と身分の差があり，指導者がいた。

イ　人々は打製石器を使い，狩りや漁をしてくらしていた。

ウ　人々は共同で生活・仕事をし，「むら」ができていた。

エ　人々は磨製石器を使い，狩りや漁をしてくらしていた。

(2)　B時代について，次の問いに答えなさい。

①　B時代はおよそどれくらいの期間ですか。次の**ア**～**エ**から選び，記号で答えなさい。

ア　今から約1万年前から紀元前4～3世紀ごろ

イ　今から約1万年前から紀元後3世紀ごろ

ウ　紀元前4～3世紀から紀元前1世紀ごろ

エ　紀元後1世紀から紀元後4世紀ごろ

②　B時代の人々が，食べ物の残りかすなどを捨てた遺跡を何といいますか。

(3)　C時代について，次の問いに答えなさい。

①　C時代に関係の深いものを次の**ア**～**エ**から選び，記号で答えなさい。

ア

イ

ウ

エ

②　C時代に，米などをたくわえるためにつくられた倉庫を何といいますか。

(4)　D時代について，次の問いに答えなさい。

①　D時代に，朝鮮半島や中国から日本に移り住んで大陸文化を伝えた人々を何といいますか。

②　D時代には，数多くの古墳がつくられました。古墳は何としてつくられましたか。次の**ア**～**エ**から選び，記号で答えなさい。

ア　城　　**イ**　家　　**ウ**　墓　　**エ**　集会場

1

(1)	①　　県
	②
(2)	①
	②
(3)	①
	②
(4)	①
	②

2 右の図を見て，次の問いに答えなさい。

A聖徳太子の政治
↕ a
B大化の改新が始まる
↕ b
C東大寺が建てられる
↕ c
D桓武天皇の政治
↕ d
E院政が始まる
↕ e

(1) Aの聖徳太子が，家がらではなく能力や功績に応じて高い位をあたえるために定めたものを次の**ア**～**エ**から選び，記号で答えなさい。

ア 冠位十二階　**イ** 十七条の憲法
ウ 班田収授法　**エ** 墾田永年私財法

(2) aの時期，聖徳太子は進んだ大陸の文化や制度を取り入れようと遣隋使を派遣しました。第1回の遣隋使を次の**ア**～**エ**から選び，記号で答えなさい。

ア 蘇我入鹿　**イ** 小野妹子　**ウ** 菅原道真　**エ** 阿倍仲麻呂

(3) Bは中大兄皇子と中臣鎌足が中心となって行った政治改革です。中大兄皇子は後に即位して，何天皇になりましたか。

(4) Bによって，土地と人民は朝廷が直接支配することになりました。これを何といいますか。

(5) bの時期におきたできごとを次の**ア**～**エ**から選び，記号で答えなさい。

ア 大宝律令の制定　**イ** 保元の乱
ウ 藤原純友の乱　**エ** 平将門の乱

(6) Cの東大寺を建立した聖武天皇は，仏教の力によって国を治めようとして，国ごとに［　　］寺・［　　］尼寺を建てさせました。［　　］に共通してあてはまることばを答えなさい。



(7) 右の写真の人物はcの時期に日本にわたってきて，寺や僧の制度をととのえた中国の高僧です。失明してまでも日本にわたってきたこの人物の名を答えなさい。

(8) Dの桓武天皇は，794年に都を京都に移しました。この都を何といいますか。

(9) 右の絵はdの時期に見られるようになった宮廷の女性の服装で，何枚もの色の異なる美しい着物を重ね着しています。この服装を何といいますか。

(10) Eを1086年に始めた人物を次の**ア**～**エ**から選び，記号で答えなさい。

ア 後三条天皇　**イ** 白河天皇
ウ 持統天皇　**エ** 推古天皇

(11) eの時期，平清盛が政権をにぎり，港を修築して中国と貿易を行いました。この港を次の**ア**～**エ**から選び，記号で答えなさい。

ア 名古屋　**イ** 神戸　**ウ** 下関　**エ** 長崎

(12) 次の歌がよまれた時期を図中のa～eから選び，記号で答えなさい。

この世をば　わが世とぞ思う　望月の　かけたることも　なしと思えば

2

(1)	
(2)	
(3)	天皇
(4)	
(5)	
(6)	
(7)	
(8)	
(9)	
(10)	
(11)	
(12)	